Θέματα Καγκουρό 2016

για μαθητές της Β΄ τάξης Δημοτικού

Ερωτήσεις 3 πόντων:

1) Ποιο γράμμα της λέξης ΚΑΓΚΟΥΡΟ λείπει από τον πίνακα;



Α) Κ **Β)** Α **Γ)** Γ
Δ) Υ **Ε)** Ρ

2) Πόσοι σπάγκοι υπάρχουν στην εικόνα;



Α) 2 **Β)** 3 **Γ)** 4
Δ) 5 **Ε)** 6

3) Πόσα σπίρτα φαίνονται στην εικόνα;

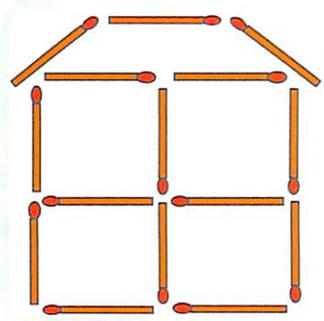

Α) 19 **Β)** 18 **Γ)** 17
Δ) 15 **Ε)** 13

4) Πόσα κομμάτια σαν το λείπουν από το διπλανό σχήμα;



Α) 3 **Β)** 4 **Γ)** 5
Δ) 6 **Ε)** 7

5) Αν ξεκινήσουμε από το σημείο Ο στον λαβύρινθο, που μπορούμε να φτάσουμε;

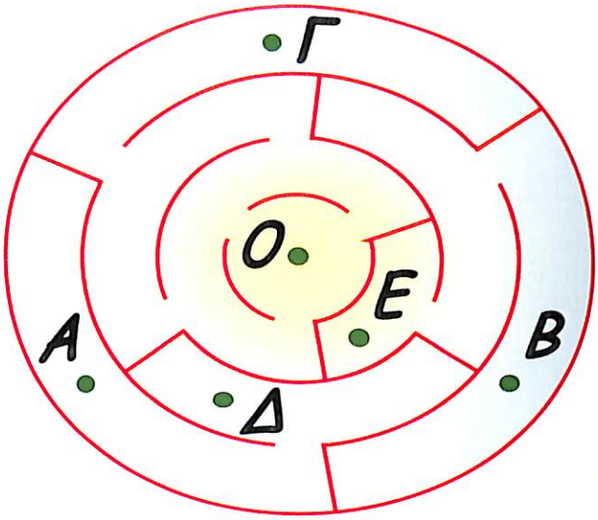

Α) στο Α **Β)** στο Β

Γ) στο Γ **Δ)** στο Δ

Ε) στο Ε

6) Στην τάξη του Γιάννη έχει 10 παιδιά εκτός από τον ίδιο. Τα 6 είναι κορίτσια. Πόσα είναι όλα μαζί τα αγόρια στην τάξη του Γιάννη;

Α) 4 **Β)** 5 **Γ)** 6 **Δ)** 7 **Ε)** 8

7) Τα σπίτια σε ένα δρόμο είναι αριθμημένα με τη σειρά από τον αριθμό 25 μέχρι και τον 57. Πόσα σπίτια έχει ο δρόμος;

Α) 31 **Β)** 32 **Γ)** 33 **Δ)** 34 **Ε)** 35

Ερωτήσεις 4 πόντων:

8) Ποιο από τα σχήματα μπορούμε να φτιάξουμε με 10 μικρούς κύβους;

Α)

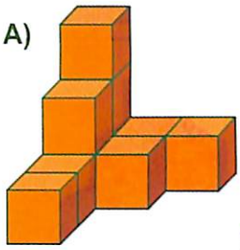

Β)

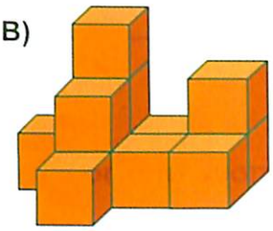

Γ)



Δ)

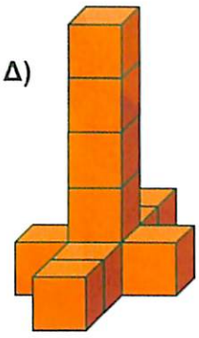

Ε)



9) Η Αθηνά έβαλε μπίλιες στα σκαλοπάτια ακολουθώντας το μοτίβο που δείχνει η εικόνα. Πώς έβαλε τις μπίλιες στο σκαλοπάτι με το ερωτηματικό;

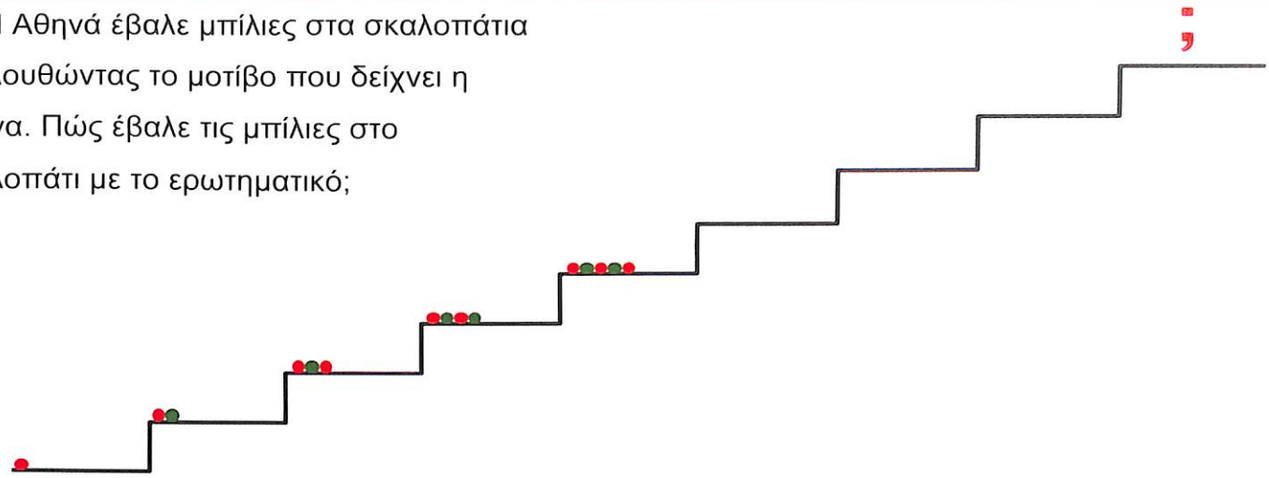

Α) **Β)** **Γ)** **Δ)** **Ε)**

---

10) Ποιο από τα παρακάτω σχήματα ***δεν*** μπορούμε να φτιάξουμε χρησιμοποιώντας και τα έξι σχήματα δεξιά;

Α)



Β)



Γ)



Δ)



Ε)



---

11) Ένα καγκουρό γεννήθηκε πριν από 1 χρόνο και 3 μήνες. Σε πόσους μήνες θα είναι 2 χρονών;

Α) σε 3 **Β)** σε 5 **Γ)** σε 7 **Δ)** σε 8 **Ε)** σε 9

---

12) Σε έναν κήπο ζει ένα κουνέλι και μερικές πάπιες. Όλα μαζί τα ζώα του κήπου έχουν 20 πόδια. Πόσες πάπιες ζουν στον κήπο;

Α) 11 **Β)** 9 **Γ)** 8 **Δ)** 6 **Ε)** 4

---

13) Το σχέδιο δείχνει τους τοίχους και τις πόρτες σε ένα σπίτι. Ένα παιδί θέλει να πάει από το δωμάτιο Α στο δωμάτιο Β. Ποιος είναι ο πιο μικρός αριθμός από πόρτες που πρέπει να περάσει;

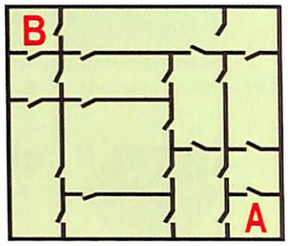

Α) 3 **Β)** 4 **Γ)** 5 **Δ)** 6 **Ε)** 7

14) Ποιο σχήμα ζυγίζει περισσότερο;

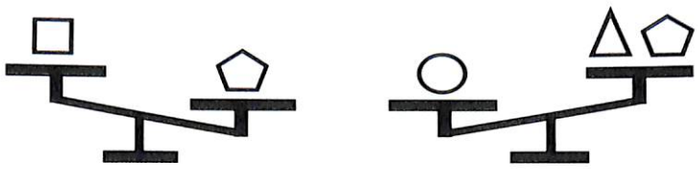

Α) □ **Β)** ⬠ **Γ)** ○ **Δ)** △

Ε) δεν μπορούμε να είμαστε σίγουροι

Ερωτήσεις 5 πόντων:

15) Η Μαρία περπάτησε σε έναν δρόμο από το σημείο 1 μέχρι το 2. Όσο περπατούσε μάζευε όλα τα γράμματα στον δρόμο της που βρίσκονταν στο δεξί της χέρι. Ποια γράμματα μάζεψε τελικά;

Α) Κ, Γ, Ο, Ο **Β)** Κ, Γ, Κ, Ο **Γ)** Κ, Γ, Υ **Δ)** Α, Κ, Υ, Ο **Ε)** Κ, Ο, Α, Ο

16) Αν προσθέσουμε τις ηλικίες του Γιάννη και της Γιάννας θα βρούμε 12. Πόσο θα βρούμε αν προσθέσουμε τις ηλικίες τους μετά από 4 χρόνια;

Α) 16 **Β)** 17 **Γ)** 18 **Δ)** 19 **Ε)** 20

17) Ποιο από τα παρακάτω σχήματα του παζλ ***δεν*** μπορούμε να φτιάξουμε χρησιμοποιώντας κομμάτια όπως το διπλανό;



Α)



Β)

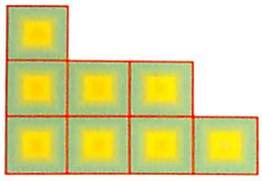

Γ)

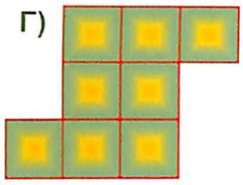

Δ)



Ε)

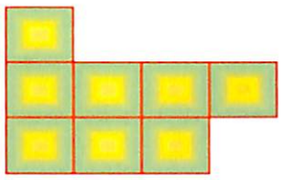

18) Ποιο από τα παρακάτω εξάγωνα πρέπει να μπει στην άδεια θέση στο σχήμα δεξιά; Η κόκκινη γραμμή πρέπει να ενωθεί με την κόκκινη, η μπλε με την μπλε και η κίτρινη με την κίτρινη.

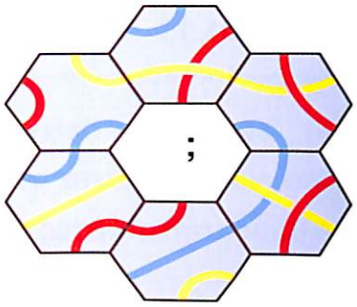

Α)

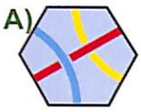

Β)

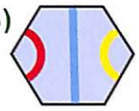

Γ)

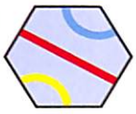

Δ)

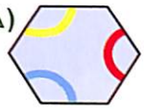

Ε)

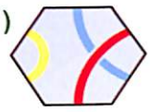

19) Ποιο μυρμήγκι περπάτησε περισσότερο για να πάει στο φαγητό του; Η εικόνες δείχνουν τις διαδρομές τους πάνω σε έναν κύβο.

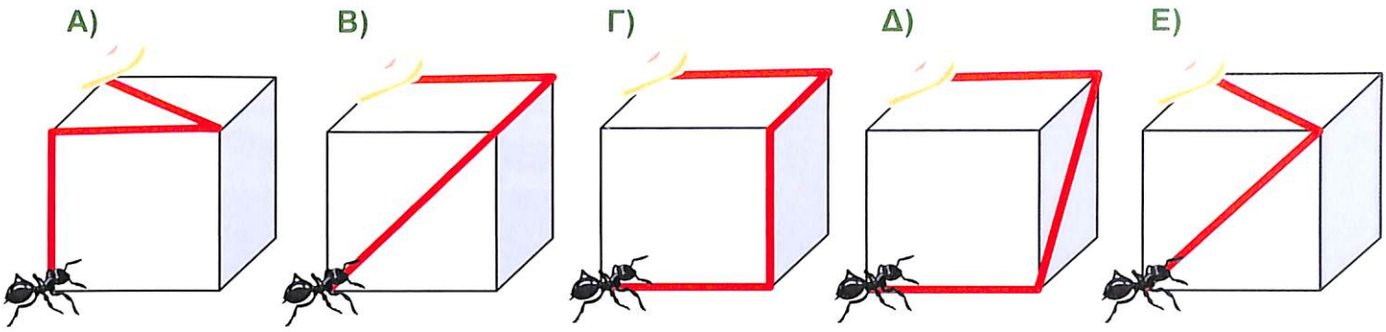

20) Σε κάθε μία από τις 6 πλευρές ενός κουτιού είναι ζωγραφισμένο κάποιο από τα ζώα , , , , , . Σε κάθε πλευρά υπάρχει διαφορετικό ζώο. Η εικόνα δείχνει δύο φωτογραφίες του κουτιού.

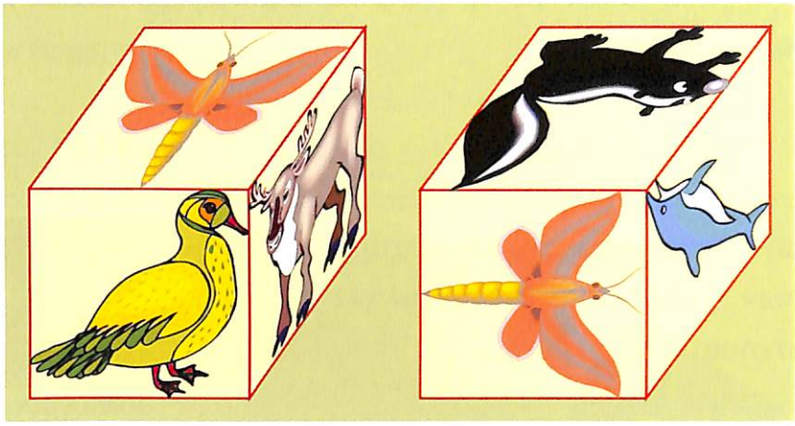

Ποιο σχήμα βρίσκεται στην πλευρά που είναι απέναντι από την πλευρά με το ;

21) Ποιος αριθμός κρύφτηκε κάτω από την μπανάνα στην διπλανή πρόσθεση;

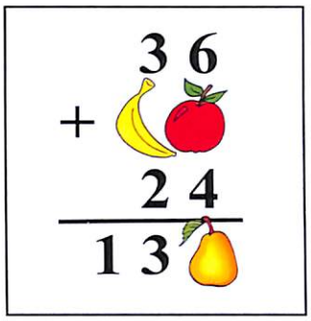

Α) 5 Β) 6 Γ) 7 Δ) 8 Ε) 9